MATEMATİK

10. SINIF

YAZILIYA HAZIRLIK

1. DÖNEM - 1. ORTAK YAZILI · SENARYO 5 · 2. SÜRÜM

TYMM 2026-2027

Hazırlayan: **Murat Altun**

Bu sorular Claude tarafından hazırlanmıştır.

1. Katlanır bir yelpaze açıldığında çubukları ortak bir pim etrafında eşit aralıklarla dizilir. Çubuk uçlarının konumları hesaplanırken ilişkili açıların trigonometrik değerleri arasındaki bağıntılar kullanılırsa her çubuk için ayrı hesap yapmaya gerek kalmaz. (Bu metin soru için hazırlanmıştır.)

Açıldığında yarım çember biçimini alan bir yelpaze, aşağıdaki gibi dik koordinat düzleminde merkezi orijinde olan birim çemberin üst yarısı üzerinde modellenmiştir. Dış çubuklar x ekseni üzerindedir; 11 iç çubuğun uçlarına U_1, U_2, U_3, …, U_{11} boncukları takılmıştır. Boncuklar; [OU_1 ışını x ekseninin pozitif yönüyle 15° lik açı yapacak ve ardışık iki boncuğu O noktasına birleştiren ışınlar arasındaki açıların her biri 15° olacak biçimde yerleştirilmiştir.

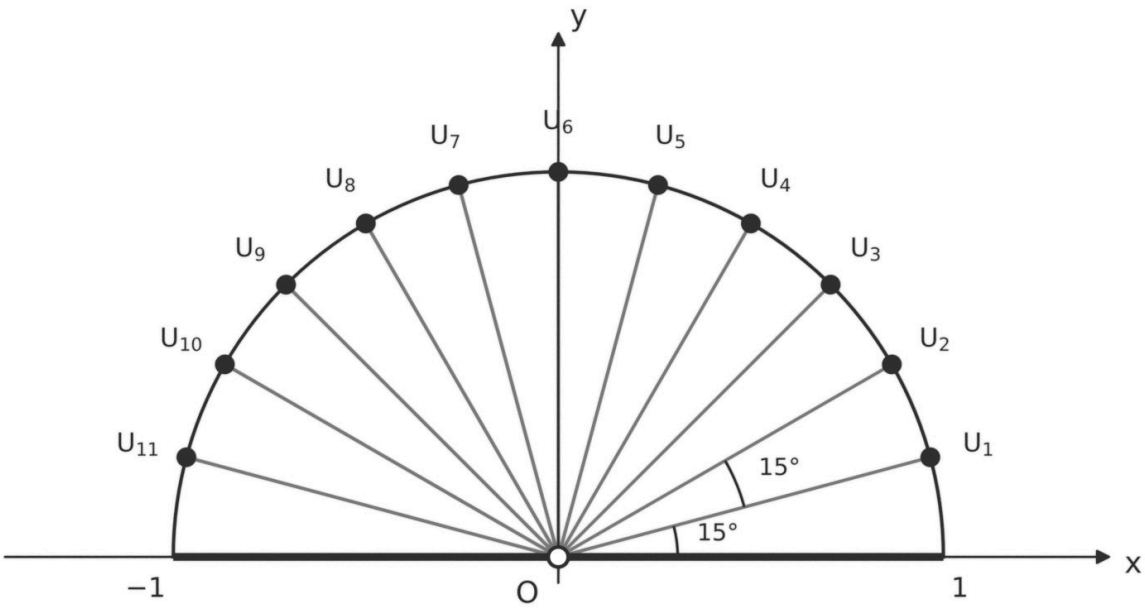

- X: Boncukların apsisleri toplamı
- Y: Boncukların ordinatlarının kareleri toplamı
- Z: Boncukların apsislerinin kareleri toplamı

olmak üzere X değerini ve Y / Z oranını trigonometrik özdeşliklerden yararlanarak bulunuz. (15 puan)

2. Fabrika ve atölye binalarında kullanılan şed çatılar, testere dişine benzeyen ve art arda dizilen eş parçalardan (dişlerden) oluşur. Her dişte eğik bir çatı yüzeyi ile gün ışığının binaya girmesini sağlayan daha dik, camlı bir yüzey bulunur. Bir atölye binası için tasarlanan şed çatının yan görünüşü aşağıda verilmiştir. (Bu metin soru için hazırlanmıştır.)

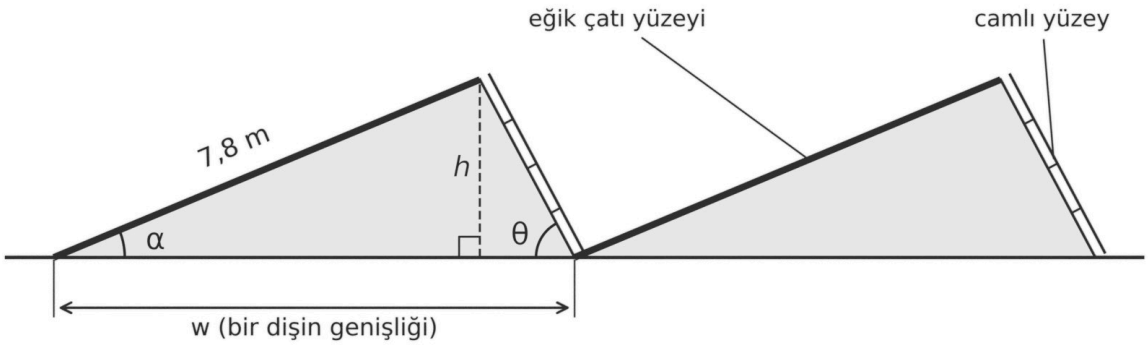

Her dişin eğik çatı yüzeyinin uzunluğu 7,8 m'dir ve bu yüzey yatayla α ölçülü açı yapmaktadır. Camlı yüzey, eğik yüzeyin en üst noktasından başlayıp bir sonraki dişin en alt noktasına kadar iner ve yatayla θ ölçülü açı yapar. α ve θ dar açılar olmak üzere $\tan\alpha = 5/12$ ve $\sin\theta = 15/17$'dir.

Buna göre aşağıdaki soruları cevaplayınız.

2.1. Trigonometrik özdeşliklerden yararlanarak $\sin\alpha$ ve $\cos\alpha$ değerlerini bulunuz. Bir dişin h yüksekliğini ve eğik çatı yüzeyinin yatayda kapladığı uzunluğu hesaplayınız. (6 puan)

2.2. $\cot\theta$ değerini trigonometrik özdeşliklerden yararlanarak bulunuz. Camlı yüzeyin yatayda kapladığı uzunluğu ve bir dişin yatayda kapladığı w genişliğini hesaplayınız. (8 puan)

2.3. Dişler, atölyenin 40 m uzunluğundaki çatısı boyunca art arda dizilecektir. Çatıya en fazla kaç tam diş yerleştirilebileceğini bulunuz. Mimar, camlı yüzeyleri daha dik yapmayı (θ açısını büyütmeyi) düşünmektedir. θ dar açısı büyüdükçe $\cot\theta$ değerinin nasıl değiştiğini kullanarak bu değişikliğin bir dişin genişliğini ve çatıya yerleştirilebilecek diş sayısını nasıl etkileyeceğini yorumlayınız. (6 puan)

3. Bir izci kampı, dik üçgen biçimindeki bir alana kurulacaktır. Alanın köşelerinde A, B ve C çadır grupları bulunmakta; alanın kenarları boyunca [AB], [BC] ve [AC] çitleri uzanmaktadır. m(BAC) = 90°, |AB| = 48 m ve |AC| = 20 m'dir.

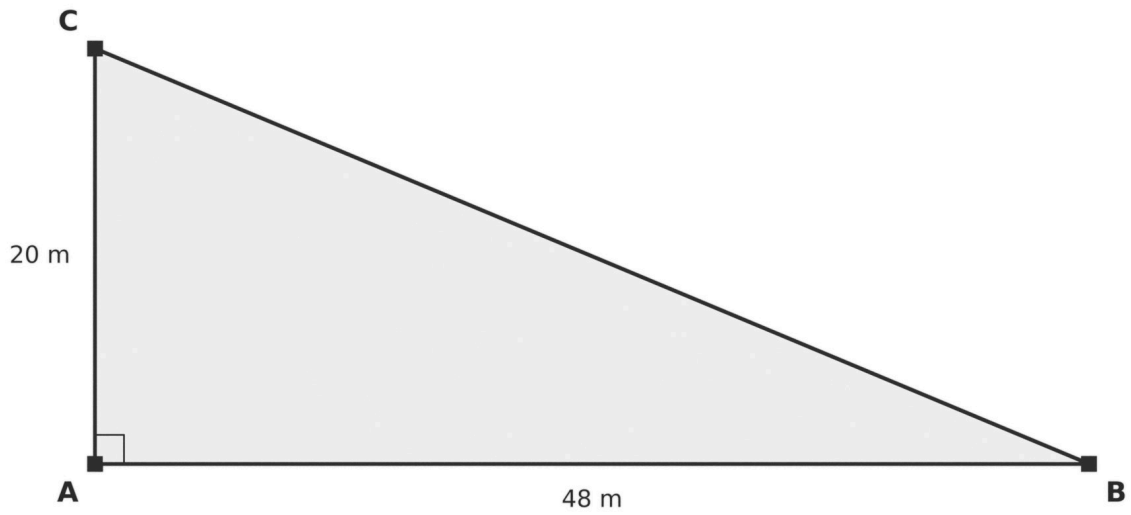

Kamp yönetimi;

- üç çadır grubuna eşit uzaklıkta olacak şekilde ilk yardım çadırını K noktasına,
- güvenlik için üç çite eşit uzaklıkta olacak şekilde kamp ateşi alanının merkezini S noktasına

yerleştirmeyi planlamaktadır. İlk yardım çadırı ile kamp ateşi alanının merkezi arasına doğrusal bir patika yapılacaktır.

Buna göre K ve S noktalarının üçgenin hangi yardımcı elemanlarının kesişim noktası olduğunu gerekçesiyle belirtiniz ve yapılacak patikanın uzunluğunun kaç metre olduğunu işlemlerinizle birlikte yazınız. (15 puan)

4. Bir zeytin üreticisi, ABC üçgeni biçimindeki zeytinliğini yeniden düzenlemektedir. Zeytinliğin A, B ve C köşelerinde birer giriş bulunmaktadır. A köşesinden [BC] kenarına çizilen dikmenin ayağı H noktası olmak üzere |AH| = 72 m, |HC| = 4 m ve |BC| = 50 m'dir. (Bu metin soru için hazırlanmıştır.)

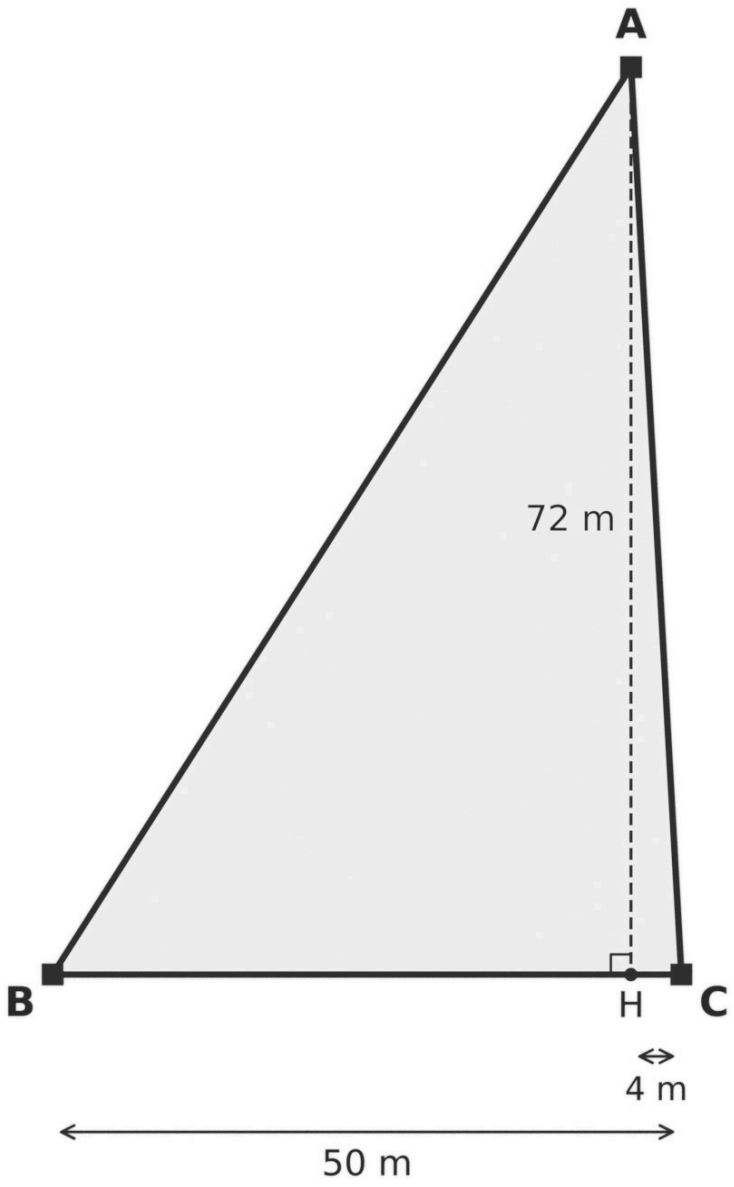

Buna göre aşağıdaki soruları cevaplayınız.

4.1. Üretici önce zeytinliği A girişinden [BC] kenarına uzanan doğrusal bir toprak yolla alanları eşit iki bölüme ayırmayı düşünmüştür. Bu yolun [BC] kenarını hangi noktada kesmesi gerektiğini ve yolun üçgenin hangi yardımcı elemanı olduğunu gerekçesiyle belirtiniz. Bu yolun uzunluğunu hesaplayınız. (5 puan)

4.2. Üretici daha sonra zeytinliği üç çocuğuna eşit olarak paylaştırmak için, kenarortayların kesim noktası olan G noktasından A, B ve C girişlerine uzanan üç doğrusal tel örgüyle GBC, GCA ve GAB üçgensel bölgelerine ayırmaya karar vermiştir. Ağırlık merkezinin kenarortayı hangi oranda böldüğünü kullanarak G noktasının [BC] kenarına uzaklığını bulunuz. Üç bölgenin alanlarının eşit olduğunu gösteriniz. (7 puan)

4.3. Tel örgülerin birleştiği G noktasına bir alet barakası kurulacaktır. 4.2'deki üç tel örgünün toplam uzunluğunun kaç metre olduğunu işlemlerinizle birlikte yazınız. (8 puan)

5. Kostüm tasarımcısı Defne, bir okul gösterisinin kostümleri için üçgen biçimli kumaş parçalarını kareli kalıp kâğıdına çizmektedir. Bir parça için gereken kumaş miktarı, parçanın alanıyla belirlenmektedir. Aşağıdaki kalıp kâğıdında her bir karenin kenar uzunluğu 1 birimdir.

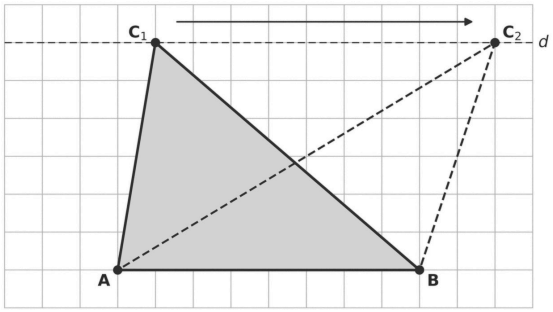

Şekil 1

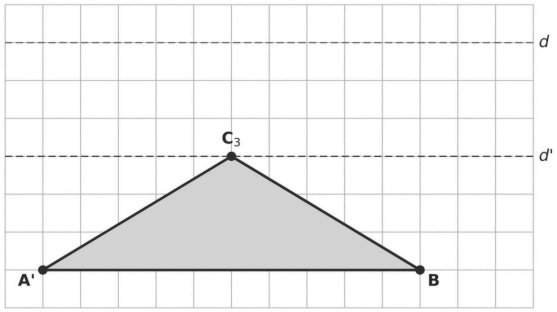

Şekil 2

Defne, Şekil 1'deki parçanın A ve B köşelerini değiştirmemiş; üçüncü köşeyi [AB] kenarına paralel olan d doğrusu üzerinde C_1 noktasından, B köşesinin sağ tarafında kalan C_2 noktasına kaydırmıştır. Şekil 1'de |AB| = 8 birimdir ve d doğrusu [AB] kenarından 6 birim uzaklıktadır.

Defne daha sonra Şekil 2'deki gibi B köşesini değiştirmeden A köşesini aynı doğrultuda 2 birim sola (A' noktasına), üçüncü köşeyi ise d doğrusunun 3 birim altındaki d' doğrusu üzerinde bulunan C_3 noktasına taşımıştır.

Buna göre üçüncü köşenin d doğrusu üzerinde kaydırılmasının ve Şekil 2'deki düzenlemenin kumaş parçasının alanını nasıl etkilediğini açıklayınız. Şekil 2'deki $A'BC_3$ üçgeninin alanının Şekil 1'deki ABC_1 üçgeninin alanına oranını bulunuz. (15 puan)

6. Bir doğa belgeseli çekiminde kullanılan kamera dronu, havalandıktan sonra yere paralel bir düzlemde uçmaktadır. Dron, bu düzlemdeki A noktasından doğrusal bir yol boyunca $50\sqrt{2}$ m uçarak B noktasına ulaşmış; burada yön değiştirip doğrusal bir yol boyunca 70 m daha uçarak C noktasına varmıştır. Dronun iki yolu arasındaki açı m(ABC) = 135°'dir.

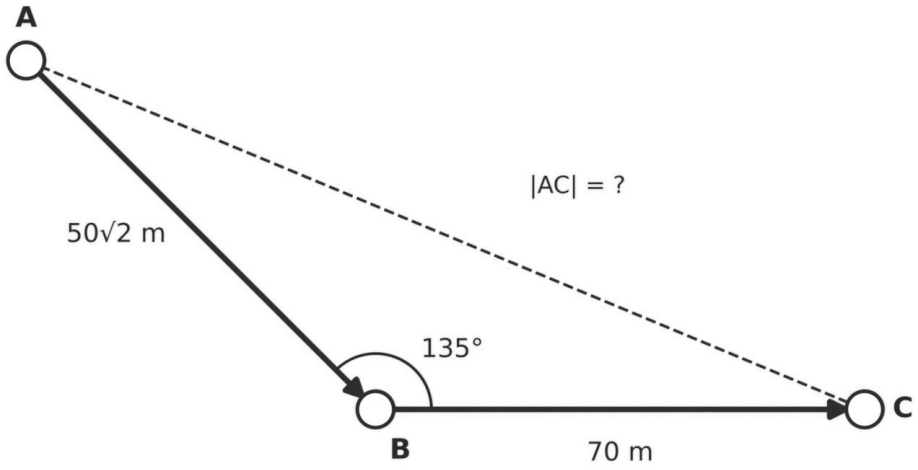

Buna göre dronun C noktasından A noktasına doğrusal bir yolla dönmesi için uçması gereken uzaklığın kaç metre olduğunu kosinüs teoremini kullanarak bulunuz. Bulduğunuz sonucu, A noktasından CB doğrusuna dikme çizerek Pisagor teoremi yardımıyla doğrulayınız. (15 puan)

ÖĞRENME ÇIKTILARI VE BECERİLER

SORU NO	ÖĞRENME ÇIKTISI	BECERİLER
1	MAT.10.1.1. Dik üçgende trigonometrik oranlara (sinüs, kosinüs, tanjant, kotanjant) ve trigonometrik özdeşliklere ilişkin çıkarım yapabilme	MAB1. Matematiksel Muhakeme; MAB2. Matematiksel Problem Çözme (MAB2.1. Matematiksel Çözümler Geliştirme)
2	MAT.10.1.1. Dik üçgende trigonometrik oranlara (sinüs, kosinüs, tanjant, kotanjant) ve trigonometrik özdeşliklere ilişkin çıkarım yapabilme	MAB2. Matematiksel Problem Çözme (MAB2.1. Matematiksel Çözümler Geliştirme); MAB1. Matematiksel Muhakeme (KB2.10. Çıkarım Yapma)
3	MAT.10.1.2. Üçgenin yardımcı elemanlarının özellikleri ile ilgili çıkarım yapabilme	MAB1. Matematiksel Muhakeme (KB2.4. Çözümleme)
4	MAT.10.1.2. Üçgenin yardımcı elemanlarının özellikleri ile ilgili çıkarım yapabilme	MAB1. Matematiksel Muhakeme (KB2.10. Çıkarım Yapma); MAB2. Matematiksel Problem Çözme
5	MAT.10.1.3. Üçgenin bir kenarı ve o kenara ait yüksekliğinin değişimine bağlı olarak alanının değişimine ilişkin çıkarım yapabilme	MAB1. Matematiksel Muhakeme (KB2.14. Yorumlama)
6	MAT.10.1.4. Sinüs ve kosinüs teoremlerini doğrulayabilme veya ispatlayabilme	MAB1. Matematiksel Muhakeme (MAB1.1. Matematiksel Doğrulama veya İspat Yapma); MAB2. Matematiksel Problem Çözme

PUANLAMA TABLOSU						
1	**2**	**3**	**4**	**5**	**6**	**TOPLAM**
15	*20*	*15*	*20*	*15*	*15*	***100***

Bu sınav, 2026-2027 eğitim öğretim yılı 1. dönem konu-soru dağılım tablosundaki 1. ortak yazılı **Senaryo 5** dağılımına göre, Türkiye Yüzyılı Maarif Modeli 10. sınıf öğretim programı esas alınarak hazırlanmıştır. Bu kâğıt, aynı senaryonun 2. sürümüdür: öğrenme çıktıları, soru sayısı ve puanlar 1. sürümle aynı, sorular farklıdır. Hazırlayan: Murat Altun. Bu sorular Claude tarafından hazırlanmıştır. Millî Eğitim Bakanlığının resmî yayını değildir; görseller Blender ile oluşturulmuştur.

ÇÖZÜMLER

1. Doğru cevap:

- Birim çember üzerindeki k. boncuğun (k = 1, 2, …, 11) koordinatlarının (cos(15k°), sin(15k°)) olduğunu belirtme **(2 puan)**
- Birbirini 180° ye tamamlayan açılar için birim çemberdeki simetriden cos(180° − x) = −cosx ve sin(180° − x) = sinx olduğunu belirtme (U_1 ile U_{11}, U_2 ile U_{10}, …, U_5 ile U_7 boncukları y eksenine göre simetriktir.) **(2 puan)**
- X = (cos15° + cos165°) + (cos30° + cos150°) + … + (cos75° + cos105°) + cos90° = 0 + 0 + … + 0 + 0 = 0 bulma **(3 puan)**
- Y = 2 · (sin²15° + sin²30° + sin²45° + sin²60° + sin²75°) + sin²90° yazma; birbirini 90° ye tamamlayan açılarda sin75° = cos15°, sin60° = cos30°, sin45° = cos45° olduğundan sin²15° + sin²75° = 1, sin²30° + sin²60° = 1 ve 2 · sin²45° = sin²45° + cos²45° = 1 eşitliklerini kullanarak Y = 2 · (1 + 1 + 1/2) + 1 = 6 bulma **(4 puan)**
- Her boncuk için sin²x + cos²x = 1 olduğundan Y + Z = 11 ve Z = 11 − 6 = 5 bulma (ya da Z değerini benzer eşlemelerle doğrudan hesaplama) **(3 puan)**
- Y / Z = 6/5 sonucunu yazma **(1 puan)**

Örnek doğru cevap: Birim çemberde bir açının bitim kolunun çemberi kestiği noktanın apsisi o açının kosinüsü, ordinatı sinüsüdür. Bu nedenle k. boncuğun koordinatları (cos(15k°), sin(15k°)) olur. U_1 ile U_{11}, U_2 ile U_{10}, … boncukları y eksenine göre simetrik olduğundan cos165° = −cos15°, cos150° = −cos30°, … ve sin165° = sin15°, sin150° = sin30°, … olur. X = (cos15° + cos165°) + (cos30° + cos150°) + … + (cos75° + cos105°) + cos90° = 0 bulunur. Y = sin²15° + … + sin²165° = 2 · (sin²15° + sin²30° + sin²45° + sin²60° + sin²75°) + sin²90° olur. sin75° = cos15°, sin60° = cos30° ve sin45° = cos45° olduğundan (sin²15° + cos²15°) + (sin²30° + cos²30°) = 2 ve sin²45° = 1/2 bulunur. Buradan Y = 2 · (2 + 1/2) + 1 = 6 olur. Her boncuk için sin² + cos² = 1 olduğundan 11 boncuk için Y + Z = 11, Z = 5 bulunur. Sonuç olarak X = 0 ve Y / Z = 6/5 olur.

Yanlış cevap: cos165° = cos15° gibi işaret hatası yaparak X değerini 0 dışında bulan, sin²90° terimini unutarak Y = 5 bulan, sin²45° terimini eşleyemeyip yanlış hesaplayan, Y ile Z değerlerini eşit kabul ederek Y / Z = 1 yazan veya değerleri yalnızca hesap makinesiyle bulup hiçbir özdeşliğe dayandırmayan cevaplar ilgili ölçütlerden puan alamaz.

2. Doğru cevap:

2.1. **(6 puan)**

- 1 + tan²α = 1 / cos²α özdeşliğinden cos²α = 1 ÷ (1 + 25/144) = 144/169 yazma ya da dik kenarları 5k ve 12k olan bir dik üçgen çizip Pisagor teoremiyle hipotenüs uzunluğunu 13k bulma **(2 puan)**
- α dar açı olduğundan cosα = 12/13 ve sinα = tanα · cosα = 5/13 bulma **(2 puan)**
- Dişin yüksekliğini h = 7,8 · sinα = 7,8 · 5/13 = 3 m bulma **(1 puan)**
- Eğik çatı yüzeyinin yatayda kapladığı uzunluğu 7,8 · cosα = 7,8 · 12/13 = 7,2 m bulma **(1 puan)**

2.2. **(8 puan)**

- sin²θ + cos²θ = 1 özdeşliğinden cos²θ = 1 − 225/289 = 64/289 yazma ve θ dar açı olduğundan cosθ = 8/17 bulma **(2 puan)**
- cotθ = cosθ / sinθ = (8/17) ÷ (15/17) = 8/15 bulma **(2 puan)**. (cotθ değerini 1 + cot²θ = 1 / sin²θ özdeşliğinden bulan öğrenci de tam puan alır.)

- Camlı yüzeyin üst ucu, bu ucun yataydaki dik izdüşümü ve camlı yüzeyin alt ucu arasında oluşan dik üçgende θ açısının karşısındaki dik kenarın h = 3 m olduğunu belirterek camlı yüzeyin yatayda kapladığı uzunluğu 3 · cotθ = 3 · 8/15 = 1,6 m bulma **(2 puan)**
- w = 7,2 + 1,6 = 8,8 m bulma **(2 puan)**

2.3. **(6 puan)**

- n diş için gereken uzunluğu n · 8,8 biçiminde ifade ederek n · 8,8 ≤ 40 eşitsizliğini kurma **(2 puan)**
- n ≤ 40 ÷ 8,8 ≈ 4,5 olduğundan en fazla 4 tam diş yerleştirilebileceğini bulma; 4 diş için 35,2 m, 5 diş için 44 m gerektiğini belirtme **(2 puan)**
- θ dar açısı büyüdükçe sinθ değerinin arttığını, cosθ değerinin azaldığını, bu nedenle cotθ = cosθ / sinθ değerinin azaldığını belirtme; aynı h yüksekliğinde camlı yüzeyin yatay uzunluğu h · cotθ kısaldığı için w genişliğinin azalacağını ve çatıya daha fazla dişin sığabileceğini (ör. cotθ ≤ 4/15 olursa w ≤ 8 m olur ve 5 diş sığar) yorumlama **(2 puan)**

Örnek doğru cevap: 2.1. 1 + tan²α = 1 / cos²α olduğundan 1 + 25/144 = 169/144 = 1 / cos²α ve cos²α = 144/169 olur. α dar açı olduğundan cosα = 12/13'tür. sinα = tanα · cosα = (5/12) · (12/13) = 5/13 bulunur. Gerçekten de sin²α + cos²α = 25/169 + 144/169 = 1'dir. Dişin yüksekliği h = 7,8 · 5/13 = 3 m, eğik çatı yüzeyinin yatayda kapladığı uzunluk 7,8 · 12/13 = 7,2 m'dir. 2.2. sin²θ + cos²θ = 1 olduğundan cos²θ = 1 − 225/289 = 64/289 ve θ dar açı olduğundan cosθ = 8/17 bulunur. cotθ = cosθ / sinθ = 8/15 olur. Camlı yüzeyin üst ucu, bu ucun yataydaki dik izdüşümü ve camlı yüzeyin alt ucu bir dik üçgen oluşturur. Bu üçgende θ açısının karşısındaki dik kenar 3 m olduğundan komşu dik kenar 3 · cotθ = 3 · 8/15 = 1,6 m'dir. Bir dişin genişliği w = 7,2 + 1,6 = 8,8 m'dir. 2.3. n diş için n · 8,8 metre uzunluk gerekir. n · 8,8 ≤ 40 ise n ≤ 4,5 olur. 4 diş için 4 · 8,8 = 35,2 m yeterlidir, 5 diş için 5 · 8,8 = 44 m gerekir. Bu çatıya en fazla 4 tam diş yerleştirilebilir. θ dar açısı büyüdükçe sinθ artar, cosθ azalır; bu nedenle cotθ = cosθ / sinθ azalır. Dişin yüksekliği aynı kaldığında camlı yüzeyin yatay uzunluğu 3 · cotθ kısalır ve bir dişin genişliği azalır. Örneğin cotθ ≤ 4/15 olacak kadar dik camlı yüzeyler yapılırsa w ≤ 8 m olur ve çatıya 5 diş sığar. Camlı yüzeyler dikleştikçe çatıya daha fazla diş yerleştirilebilir.

Yanlış cevap: sinα ve cosα değerlerini yer değiştirerek (sinα = 12/13, cosα = 5/13) kullanan; cotθ yerine tanθ = 15/8 kullanarak camlı yüzeyin yatay uzunluğunu 5,625 m bulan; w genişliğini yalnızca eğik yüzeyin yatay uzunluğu (7,2 m) olarak alan; 4,5 sonucunu yukarı yuvarlayarak 5 diş bulan veya "θ büyüdükçe camlı yüzeyin yatay uzunluğu artar." biçiminde yorum yapan cevaplar ilgili ölçütlerden puan alamaz. Değerleri yalnızca hesap makinesiyle açı ölçüsü bularak hesaplayıp hiçbir özdeşliğe dayandırmayan cevaplar 2.1 ve 2.2'nin özdeşlik ölçütlerinden puan alamaz.

3. Doğru cevap:

- K noktasının üç köşeye eşit uzaklıkta olduğu için kenar orta dikmelerin kesim noktası (çevrel çemberin merkezi) olduğunu belirtme; dik üçgende hipotenüse ait kenarortayın uzunluğu hipotenüs uzunluğunun yarısına eşit olduğundan K noktasının [BC] hipotenüsünün orta noktası olduğu sonucuna ulaşma **(3 puan)**
- |BC|² = 48² + 20² = 2704, |BC| = 52 m ve |KA| = |KB| = |KC| = 26 m bulma; K noktasının [AB] kenarına uzaklığının 20 ÷ 2 = 10 m, [AC] kenarına uzaklığının 48 ÷ 2 = 24 m olduğunu belirleme **(2 puan)**
- S noktasının üç kenara eşit uzaklıkta olduğu için iç açıortayların kesim noktası (iç teğet çemberin merkezi) olduğunu belirtme **(2 puan)**

- S noktasının kenarlara uzaklığını r alarak A(ABC) = A(SAB) + A(SBC) + A(SAC) eşitliğinden ½ · 48 · 20 = ½ · r · (48 + 52 + 20), 480 = 60r ve r = 8 m bulma **(3 puan)**. (r değerini teğet parçalarının eşitliğinden r = (48 + 20 − 52) ÷ 2 = 8 m olarak bulan öğrenci de tam puan alır.)
- S noktasının [AB] ve [AC] kenarlarına uzaklığının 8 m olduğunu kullanarak S ile K arasındaki [AB] kenarına paralel doğrultudaki farkı 24 − 8 = 16 m ve [AC] kenarına paralel doğrultudaki farkı 10 − 8 = 2 m olarak belirleme **(2 puan)**
- Oluşan dik üçgende Pisagor teoremiyle |SK|² = 16² + 2² = 260 ve |SK| = 2√65 m (yaklaşık 16,1 m) bulma **(3 puan)**

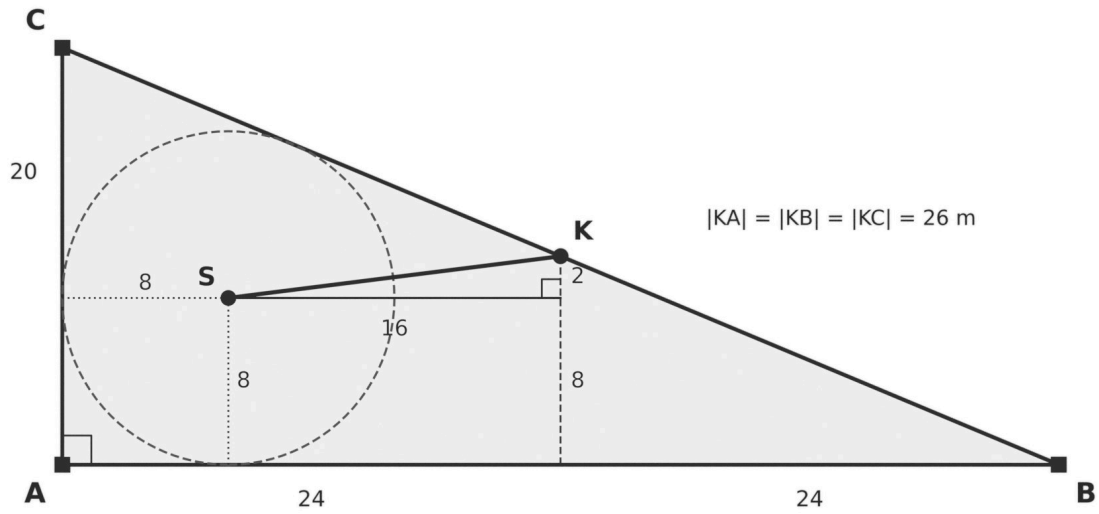

Örnek doğru cevap: İlk yardım çadırı üç çadır grubuna, yani üçgenin üç köşesine eşit uzaklıkta olacağından K noktası kenar orta dikmelerin kesim noktası, yani çevrel çemberin merkezidir. Dik üçgende hipotenüse ait kenarortayın uzunluğu hipotenüsün yarısı olduğundan [BC] kenarının orta noktası A, B ve C köşelerine eşit uzaklıktadır; K, [BC] kenarının orta noktasıdır. |BC|² = 48² + 20² = 2304 + 400 = 2704 olduğundan |BC| = 52 m ve |KA| = |KB| = |KC| = 26 m'dir. K orta nokta olduğundan [AB] kenarına uzaklığı 10 m, [AC] kenarına uzaklığı 24 m'dir. Kamp ateşi alanının merkezi üç çite, yani üçgenin üç kenarına eşit uzaklıkta olacağından S noktası iç açıortayların kesim noktası, yani iç teğet çemberin merkezidir. S noktasının kenarlara uzaklığı r olsun. A(ABC) = ½ · 48 · 20 = 480 m² ve A(ABC) = ½ · r · 48 + ½ · r · 52 + ½ · r · 20 = 60r olduğundan r = 8 m'dir. S noktası [AB] ve [AC] kenarlarına 8 m uzaklıktadır. S ile K arasında [AB] kenarına paralel doğrultuda 24 − 8 = 16 m, [AC] kenarına paralel doğrultuda 10 − 8 = 2 m fark vardır. |SK|² = 16² + 2² = 260 olduğundan patikanın uzunluğu |SK| = 2√65 m ≈ 16,1 m'dir.

Yanlış cevap: K noktasını ağırlık merkezi veya yüksekliklerin kesim noktası olarak, S noktasını kenar orta dikmelerin kesim noktası olarak belirleyen; iç teğet çemberin yarıçapını 8 m'den farklı bulan veya patikanın uzunluğunu 2√65 m'den farklı bulan cevaplar ilgili ölçütlerden puan alamaz.

4. Doğru cevap:

4.1. **(5 puan)**

- Yolun [BC] kenarını kestiği nokta D olmak üzere ABD ve ADC üçgenlerinin [BD] ve [DC] tabanlarına ait yüksekliklerinin ortak (|AH| = 72 m) olduğunu, bu nedenle alanların eşit olması için tabanların eşit olması gerektiğini belirterek D noktasının [BC] kenarının orta noktası olduğunu (|BD| = |DC| = 25 m) bulma **(2 puan)**

- Yolun A köşesine ait [AD] kenarortayı olduğunu belirtme **(1 puan)**
- |HD| = 25 − 4 = 21 m bulup AHD dik üçgeninde $|AD|^2 = 72^2 + 21^2 = 5625$ ve |AD| = 75 m bulma **(2 puan)**

4.2. **(7 puan)**

- Ağırlık merkezinin kenarortayı köşeden itibaren 2 : 1 oranında böldüğünü kullanarak |AG| = 50 m ve |GD| = 25 m bulma **(2 puan)**
- G noktasından [BC] kenarına [GG'] dikmesini çizerek DG'G ve DHA üçgenlerinin benzerliğinden (ya da temel orantı teoreminden) |GG'| / |AH| = |GD| / |AD| = 1/3 yazma ve |GG'| = 24 m bulma **(2 puan)**
- $A(ABC) = ½ \cdot 50 \cdot 72 = 1800$ m² ve $A(GBC) = ½ \cdot 50 \cdot 24 = 600$ m² bulup A(GBC) = A(ABC) / 3 olduğunu belirtme **(1 puan)**
- D orta nokta olduğundan A(ABD) = A(ADC) = 900 m² ve A(GBD) = A(GDC) = 300 m² olduğunu belirterek A(GAB) = 900 − 300 = 600 m², A(GCA) = 900 − 300 = 600 m² bulma ve üç bölgenin alanlarının eşit olduğu sonucuna ulaşma **(2 puan)**. (G noktasının diğer kenarortayları da 2 : 1 oranında böldüğünü kullanarak G'nin [CA] ve [AB] kenarlarına uzaklığının ilgili yüksekliklerin üçte biri olduğunu gösteren öğrenci de tam puan alır.)

4.3. **(8 puan)**

- |GA| = 50 m olduğunu belirtme **(1 puan)**
- G' noktasının konumunu belirleme: AHD üçgeninde [GG'] // [AH] olduğundan |HG'| / |HD| = |AG| / |AD| = 2/3, |HG'| = 14 m, |G'C| = 4 + 14 = 18 m ve |BG'| = 50 − 18 = 32 m bulma **(3 puan)**
- BG'G dik üçgeninde $|GB|^2 = 32^2 + 24^2 = 1600$ ve |GB| = 40 m bulma **(2 puan)**
- CG'G dik üçgeninde $|GC|^2 = 18^2 + 24^2 = 900$ ve |GC| = 30 m bulma **(1 puan)**
- Tel örgünün toplam uzunluğunu 50 + 40 + 30 = 120 m bulma **(1 puan)**

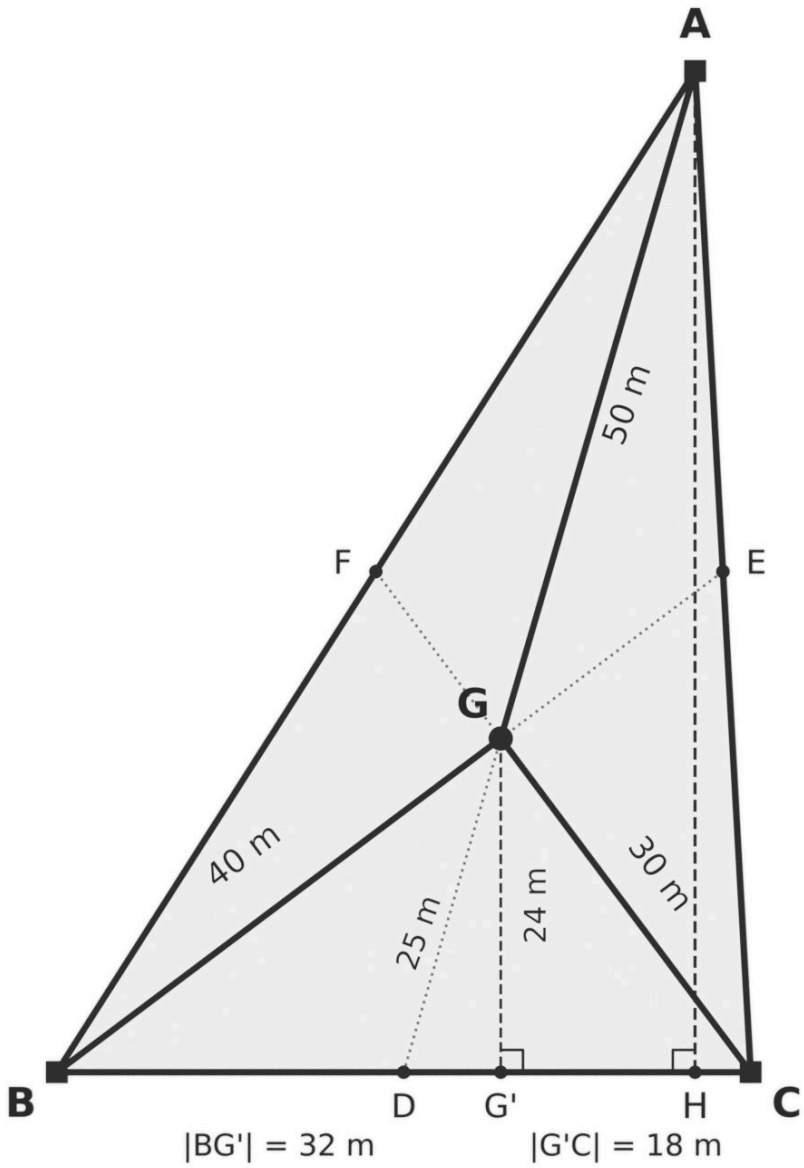

Örnek doğru cevap: 4.1. Yol [BC] kenarını D noktasında kessin. ABD ve ADC üçgenlerinin [BC] üzerindeki tabanlarına ait yükseklikleri aynıdır ve |AH| = 72 m'dir. Bu üçgenlerin alanlarının eşit olması için tabanları eşit olmalıdır: |BD| = |DC| = 50 ÷ 2 = 25 m. Yani yol, [BC] kenarının orta noktasından geçen [AD] kenarortayıdır. |HD| = |DC| − |HC| = 25 − 4 = 21 m olduğundan AHD dik üçgeninde |AD|² = 72² + 21² = 5184 + 441 = 5625 ve |AD| = 75 m'dir. 4.2. Kenarortayların kesim noktası G ağırlık merkezidir ve her kenarortayı köşeden itibaren 2 : 1 oranında böler. Buna göre |AG| = 50 m, |GD| = 25 m'dir. G noktasından [BC] kenarına [GG'] dikmesi çizilirse [GG'] // [AH] olur ve DG'G ile DHA üçgenleri benzerdir. |GG'| / |AH| = |GD| / |AD| = 25/75 = 1/3 olduğundan |GG'| = 72 ÷ 3 = 24 m'dir. A(ABC) = ½ · 50 · 72 = 1800 m² ve A(GBC) = ½ · 50 · 24 = 600 m²'dir; bu değer 1800 m²'nin üçte biridir. D orta nokta olduğundan ABD ve ADC üçgenlerinin alanları 900 m², GBD ve GDC üçgenlerinin alanları da 300 m²'dir (ortak yükseklik |GG'|, eşit tabanlar). Buradan A(GAB) = 900 − 300 = 600 m² ve A(GCA) = 900 − 300 = 600 m² olur. Üç bölgenin her birinin alanı 600 m²'dir. 4.3. |GA| = |AG| = 50 m'dir. [GG'] // [AH] olduğundan |HG'| / |HD| = |AG| / |AD| = 2/3 ve |HG'| = 14 m'dir. Buna göre |G'C| = 4 + 14 = 18 m, |BG'| = 50 − 18 = 32 m'dir. BG'G dik üçgeninde |GB|² = 32² + 24² = 1600 ve |GB| = 40 m; CG'G dik üçgeninde |GC|² = 18² + 24² = 900 ve |GC| = 30 m'dir. Kullanılacak tel örgünün toplam uzunluğu 50 + 40 + 30 = 120 m'dir.

Yanlış cevap: 4.1'de yolun [BC] kenarına dik olan [AH] yüksekliği olması gerektiğini söyleyen (yükseklik ile kenarortayı karıştıran) veya |AD| uzunluğunu 75 m'den farklı bulan; 4.2'de G noktasını kenarortayın orta noktası kabul eden, G'nin [BC] kenarına uzaklığını 72 ÷ 2 = 36 m bulan ya da G'yi açıortayların veya kenar orta dikmelerin kesim noktası olarak düşünen; 4.3'te G' noktasını [BC] kenarının orta noktası kabul ederek |GB| ve |GC| uzunluklarını hesaplayan cevaplar ilgili ölçütlerden puan alamaz.

5. Doğru cevap:

- ABC_1 ve ABC_2 üçgenlerinin [AB] tabanının ortak olduğunu, C_1 ve C_2 noktaları [AB] kenarına paralel d doğrusu üzerinde bulunduğundan [AB] kenarına ait yüksekliklerin eşit (6 birim) olduğunu belirtme (ABC_2 üçgeninde bu yüksekliğin ayağı [AB] kenarının uzantısı üzerindedir.) **(3 puan)**
- $A(ABC_1) = A(ABC_2) = ½ \cdot 8 \cdot 6 = 24$ birimkare bulma ve üçüncü köşe d doğrusu üzerinde nereye kaydırılırsa kaydırılsın alanın değişmeyeceği sonucuna ulaşma **(3 puan)**
- Şekil 2'de taban uzunluğunun 8 + 2 = 10 birim, yüksekliğin 6 − 3 = 3 birim olduğunu belirleyerek $A(A'BC_3) = ½ \cdot 10 \cdot 3 = 15$ birimkare bulma **(3 puan)**
- $A(A'BC_3) / A(ABC_1) = 15 / 24 = 5/8$ oranını bulma **(3 puan)**
- Taban uzunluğunun 5/4 katına çıktığını (%25 arttığını), yüksekliğin 1/2 katına indiğini (%50 azaldığını), alan taban ile o tabana ait yüksekliğin çarpımıyla orantılı olduğundan alanın (5/4) · (1/2) = 5/8 katına indiğini (%37,5 azaldığını) ve tabandaki artışın yükseklikteki azalmayı karşılamadığını yorumlama **(3 puan)**

Örnek doğru cevap: Şekil 1'de ABC_1 ve ABC_2 üçgenlerinin tabanı [AB] kenarıdır. C_1 ve C_2 noktaları [AB] kenarına paralel olan d doğrusu üzerinde olduğundan bu noktaların [AB] doğrusuna uzaklıkları, yani [AB] kenarına ait yükseklikler 6 birimdir. C_2 noktası B köşesinin ötesinde olduğundan ABC_2 üçgeninde bu yüksekliğin ayağı [AB] kenarının uzantısına düşer, ancak yüksekliğin uzunluğu değişmez. $A(ABC_1) = A(ABC_2) = ½ \cdot 8 \cdot 6 = 24$ birimkaredir. Taban ve o tabana ait yükseklik değişmediği için üçüncü köşe d doğrusu üzerinde nereye kaydırılırsa kaydırılsın alan, yani gereken kumaş miktarı değişmez. Şekil 2'de taban |A'B| = 10 birim, yükseklik 3 birim olduğundan $A(A'BC_3) = ½ \cdot 10 \cdot 3 = 15$ birimkaredir. İstenen oran 15 / 24 = 5/8'dir. Taban 8 birimden 10 birime çıkarak 5/4 katına, yükseklik 6 birimden 3 birime inerek 1/2 katına değişmiştir. Üçgenin alanı taban ile yüksekliğin çarpımıyla orantılı olduğundan alan (5/4) · (1/2) = 5/8 katına iner. Taban uzasa da yükseklik yarıya indiği için parçanın alanı %37,5 azalır.

Yanlış cevap: Üçüncü köşe kaydırıldığında üçgenin biçimi değiştiği veya yükseklik üçgenin dışına düştüğü için alanın da değiştiğini öne süren; Şekil 2'de tabanın arttığını görüp yüksekliğin azaldığını dikkate almadan alanın arttığını söyleyen veya alan oranını 5/8'den farklı bulan cevaplar ilgili ölçütlerden puan alamaz.

6. Doğru cevap:

- ABC üçgeninde kosinüs teoremini $|AC|^2 = |AB|^2 + |BC|^2 - 2 \cdot |AB| \cdot |BC| \cdot \cos(ABC)$ biçiminde yazma **(3 puan)**
- Birim çemberden ya da bütünler açı ilişkisinden $\cos135° = -\cos45° = -\sqrt{2}/2$ olduğunu belirtme **(3 puan)**
- $|AC|^2 = (50\sqrt{2})^2 + 70^2 - 2 \cdot 50\sqrt{2} \cdot 70 \cdot (-\sqrt{2}/2) = 5000 + 4900 + 7000 = 16\,900$ ve $|AC| = 130$ m bulma **(3 puan)**
- A noktasından CB doğrusuna [AH] dikmesini çizme; H noktasının [CB] doğru parçasının B tarafındaki uzantısında olduğunu ve $m(ABH) = 180° - 135° = 45°$ olduğunu belirleme; ABH $(45° - 45° - 90°)$ üçgeninde $|BH| = 50\sqrt{2} \cdot \cos45° = 50$ m ve $|AH| = 50\sqrt{2} \cdot \sin45° = 50$ m bulma **(3 puan)**
- AHC dik üçgeninde $|CH| = 70 + 50 = 120$ m alarak $|AC|^2 = 120^2 + 50^2 = 14\,400 + 2500 = 16\,900$ ve $|AC| = 130$ m bulma; iki yöntemin aynı sonucu verdiğini belirtme **(3 puan)**

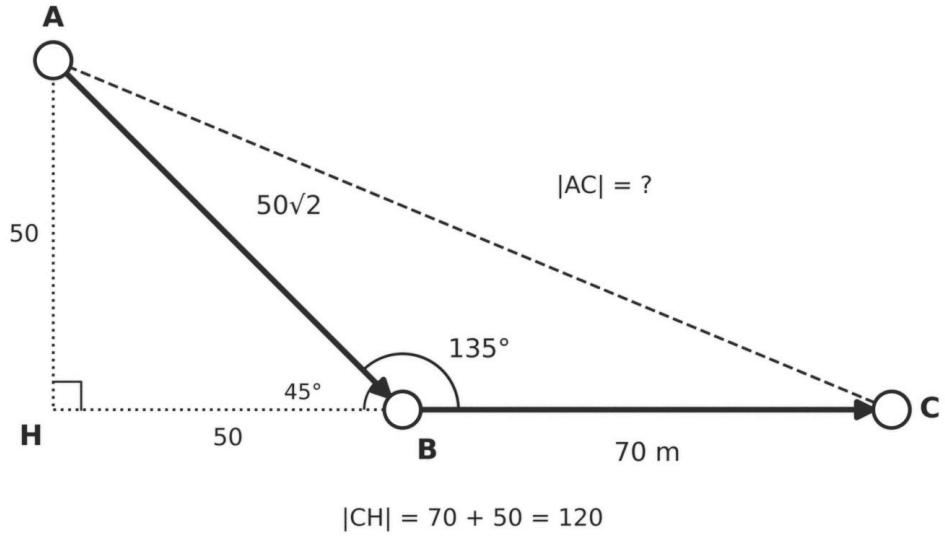

Örnek doğru cevap: Kosinüs teoremine göre $|AC|^2 = (50\sqrt{2})^2 + 70^2 - 2 \cdot 50\sqrt{2} \cdot 70 \cdot \cos135°$ olur. Birim çemberde 135° lik açının bitim kolunun çemberi kestiği noktanın apsisi $-\sqrt{2}/2$ olduğundan $\cos135° = -\sqrt{2}/2$'dir. Buradan $|AC|^2 = 5000 + 4900 + 7000 = 16\,900$ ve $|AC| = 130$ m bulunur. Doğrulama için A noktasından CB doğrusuna [AH] dikmesi çizilir. $m(ABC) = 135°$ olduğundan H noktası [CB] doğru parçasının B tarafındaki uzantısı üzerindedir ve $m(ABH) = 45°$'dir. ABH ikizkenar dik üçgeninde $|BH| = 50\sqrt{2} \cdot \cos45° = 50$ m, $|AH| = 50\sqrt{2} \cdot \sin45° = 50$ m olur. $|CH| = 70 + 50 = 120$ m'dir. AHC dik üçgeninde Pisagor teoremiyle $|AC|^2 = 120^2 + 50^2 = 16\,900$ ve $|AC| = 130$ m bulunur. İki yöntem de aynı sonucu verdiğinden dronun dönüş için uçması gereken 130 m'lik uzaklık doğrulanmış olur.

Yanlış cevap: $\cos135°$ değerini $\sqrt{2}/2$ alarak $|AC|^2 = 2900$ ve $|AC| = 10\sqrt{29}$ m bulan, kosinüs teoremindeki işaretleri hatalı yazan, dikme ayağını [BC] kenarı üzerinde alarak $|CH| = 70 - 50 = 20$ m kullanan veya doğrulama adımını yapmadan yalnızca sonucu yazan cevaplar ilgili ölçütlerden puan alamaz.